FONCTIONS - *Généralités*

Leçon : FONCTIONS - Généralités
Présentation globale

Chapitre n° 1

I) Définitions et Domaine de définitions.

1 Définitions
2 Exemples
3 Domaine de définitions.

Chapitre n° 2

II) Egalité de deux fonctions – Représentations graphique
1 Egalité de deux fonctions
2 Représentations graphique

Chapitre n° 3

III) Fonctions paires et Fonctions impaires1 Définitions
2 le graphe et la parité de la fonction ***Chapitre n° 4***
IV) Les variations d'une fonction numérique
1 Fonction croissante -décroissante -fonction constantes
2 Le taux d'accroissement d'une fonction

Chapitre n° 5

V) Les extremums d'une fonction numérique
VI) Etude et représentation graphique des fonctions $x \xrightarrow{f} ax^2$
VII) Etude et représentation graphique des fonctions $x \xrightarrow{f} ax^2+bx+c$
VIII) Etude et représentation graphique des fonctions : $x \xrightarrow{f} \frac{a}{x}$
IX) Etude et représentation graphique des fonctions homographique : $x \xrightarrow{f} \frac{ax+b}{cx+d}$

I) Définitions et Domaine de définitions

1°) Définitions

Définition : Une ***fonction*** est une relation qui a un nombre x appartenant à un ensemble D associe un nombre y

On note : x $\overset{f}{\mapsto}$ y ou encore $f : x \mapsto y$ ou encore $y = f(x)$

On dit que y est l'image de x par la fonction f et que x est un antécédent de y par la fonction f

2)Exemples :

Exemple 1: Soit Les fonctions numériques suivants :

$f(x) = x^2 + 2x - 5$ $g(x) = \frac{3x^3+2x^2-1}{5x^2-4}$.

; $h(x) = \frac{2x-1}{5x-4}$; $l(x) = \sqrt{x}$; $R(x) = \frac{\sin x - \cos x}{\tan x}$

f S'appelle une fonction polynôme

g S'appelle une fonction rationnelle

h S'appelle une fonction rationnelle et s'appelle aussi une fonction homographique :Une fonctions homographique s'écrit sous la forme : $h(x) = \frac{ax+b}{cx+d}$

l S'appelle la fonction racine carré

R S'appelle la fonction circulaire ou fonction trigonométrique

Exemple 2: Soit la fonction f définie par , $f(x) = 3x^2 - 1$

1)Calculer l'image de 1 et $\sqrt{2}$ et -1 par f.
2)Déterminer les antécédents éventuels de 2 par f,

Réponses : 1) $f(1) = 3\times1^2 - 1 = 3 - 1 = 2$ et

$f(\sqrt{2}) = 3\times(\sqrt{2})^2 - 1 = 6 - 1 = 4$

$f(-1) = 3\times(-1)^2 - 1 = 3 - 1 = 2$

2) $f(x) = 2$ ssi $3\times x^2 - 1 = 2$

ssi $3\times x^2 = 2+1$ ssi $3\times x^2 = 3$ ssi $x^2 = 1$

ssi $x = -1$ ou $x = 1$

donc les antécédents éventuels de 2 par f sont -1 et 1

3°) Domaine de définitions

ACTIVITES :

a. On considère la fonction définie par : $x \overset{f}{\mapsto} \frac{1}{x-3}$

Parmi les valeurs suivantes, laquelle/lesquelles n'a/ont pas d'image par f ? 0 ; 2 ; -3 ; 3.

b. On considère la fonction définie par : $x \overset{g}{\longmapsto} \sqrt{x-3}$

Parmi les valeurs suivantes, laquelle/lesquelles n'a/ont pas d'image par g ? 0 ; 2 ; -3 ; 4.

c. On considère la fonction définie par : $x \overset{h}{\longmapsto} \dfrac{1}{\sqrt{7-x}}$

Parmi les valeurs suivantes, laquelle/lesquelles n'a/ont pas d'image par h ? 5 ; -6 ; 9 ; 7.

Définition : Pour une fonction f donnée, l'ensemble de tous les nombres réels qui ont une image par cette fonction est appelé ensemble de définition de la fonction f, que l'on notera D_f

Exemple : Déterminer l'ensemble de définition des fonctions suivantes définie par :

1) $f(x)=3x^2-x+1$. 2) $f(x)=\dfrac{x^3}{2x-4}$. 3) $f(x)=\dfrac{2x^4}{x^2-4}$. 4) $f(x)=\dfrac{7x-1}{x^3-2x}$.

5) $f(x)=\sqrt{-3x+6}$. 6) $f(x)=\dfrac{x-5}{2x^2-5x-3}$.

7) $f(x)=\sqrt{x^2-3x+2}$. 8) $f(x)=\sqrt{\dfrac{-3x+9}{x+1}}$.

9) $f(x)=\dfrac{x+1}{\sqrt{-2x^2+x+3}}$. 10) $f(x)=\dfrac{|x-5|}{x^2+1}$.

11) $f(x)=\dfrac{\sqrt{|x|}}{x}$. 12) $f(x)=\dfrac{\sqrt{x+2}}{x-1}$.

13) $f(x)=\sqrt{-2x^2+x+3}$. 14) $f(x)=\dfrac{|x-5|}{x^2+1}$.

15) $f(x)=\dfrac{\sqrt{|x|}}{x}$. 16) $f(x)=\dfrac{\sqrt{x-2}}{2x+4}$.

17) $f(x)=3x^2-\dfrac{1}{x}+\sqrt{-x}$. 18) $f(x)=\dfrac{x}{|2x-4|-|x-1|}$.

19) $f(x)=\dfrac{2\sin x}{2\cos x-1}$. 20) $f(x)=\sqrt{\dfrac{-2x^2+2x+13}{x^2-x-6}}$.

21) $f(x)=\sqrt{x^2+\left(2\sqrt{3}-\sqrt{2}\right)x-2\sqrt{6}}$.

Solutions

1) $f(x)=3x^2-x+1$ f est une fonction polynôme donc Un réel a toujours une image. Donc $D_f=\mathbb{R}$

2) $f(x)=\dfrac{x^3}{2x-4}$. Pour les fonctions du type fractions rationnelles, l'ensemble de définition est l'ensemble des nombres pour lesquels le dénominateur est non nul.

$D_f=\{x\in\mathbb{R}/2x-4\neq 0\}$

$2x-4=0$ ssi $x=\dfrac{4}{2}=2$ Donc $D_f=\mathbb{R}-\{2\}$

On dira aussi que 2est une valeur interdite pour la fonction f

3) $f(x)=\dfrac{2x^4}{x^2-4}$.

$D_f=\{x\in\mathbb{R}/x^2-4\neq 0\}$

$x^2-4=0$ ssi $x^2-2^2=0$ ssi $(x-2)(x+2)=0$

ssi $x-2=0$ ou $x+2=0$ ssi $x=2$ ou $x=-2$

donc $D_f=\mathbb{R}-\{-2;2\}$

4) $f(x)=\dfrac{7x-1}{x^3-2x}$. $D_f=\{x\in\mathbb{R}/x^3-2x\neq 0\}$

$x^3-2x=0$ ssi $x(x^2-2)=0$ ssi $x=0$ ou $x^2-2=0$ ssi

$x=0$ ou $x^2=2$ ssi $x=0$ ou $x=\sqrt{2}$ ou $x=-\sqrt{2}$

donc $D_f=\mathbb{R}-\{-\sqrt{2};0;\sqrt{2}\}$

5) $f(x)=\sqrt{-3x+6}$.

Pour les fonctions du type racine carrée, l'ensemble de définition est l'ensemble des nombres pour lesquels l'intérieur de la racine est positif : $D_f=\{x\in\mathbb{R}/-3x+6\geq 0\}$

$-3x+6\geq 0$ ssi $x\leq 2$ ssi $x\leq\dfrac{-6}{-3}$ ssi $-3x\geq -6$

Donc $D_f=]-\infty;2]$

6) $f(x)=\dfrac{x-5}{2x^2-5x-3}$. $D_f=\{x\in\mathbb{R}/2x^2-5x-3\neq 0\}$

$2x^2-5x-3=0$ $a=2$ et $b=-5$ et $c=-3$

$\Delta=b^2-4ac=(-5)^2-4\times 2\times(-3)=25+24=49=(7)^2>0$

$x_1=\dfrac{-b+\sqrt{\Delta}}{2a}$ et $x_2=\dfrac{-b-\sqrt{\Delta}}{2a}$

$x_1=\dfrac{-(-5)+\sqrt{49}}{2\times 2}=\dfrac{7+5}{4}=\dfrac{12}{4}=3$ et $x_2=\dfrac{(-5)-\sqrt{49}}{2\times 2}=\dfrac{5-7}{4}=\dfrac{-2}{4}=-\dfrac{1}{2}$

Donc $D_f=\mathbb{R}-\left\{-\dfrac{1}{2};3\right\}$

7) $f(x)=\sqrt{2x^2-3x+1}$.

$D_f=\{x\in\mathbb{R}/2x^2-3x+1\geq 0\}$ soit Δ son discriminant

$\Delta=b^2-4ac=(-3)^2-4\times 2\times 1=9-8=1>0$ $a=2$

$x_1=\dfrac{-(-3)+\sqrt{1}}{2\times 2}=\dfrac{4}{4}=1$ et $x_2=\dfrac{-(-3)-\sqrt{1}}{2\times 2}=\dfrac{2}{4}=\dfrac{1}{2}$

x	$-\infty$		$1/2$		1		$+\infty$
$P(x)$		$+$	0	$-$	0	$+$	

Donc $D_f=\left]-\infty,\dfrac{1}{2}\right]\cup[1,+\infty[$

8) $f(x)=\sqrt{\dfrac{-9x+3}{x+1}}$. $D_f=\left\{x\in\mathbb{R}/\dfrac{-9x+3}{x+1}\geq 0 et x+1\neq 0\right\}$

$-9x+3=0$ ssi $x=\dfrac{1}{3}$ ssi $-9x=-3$

$x+1=0$ ssi $x=-1$

x	$-\infty$		-1		$\frac{1}{3}$		$+\infty$
$-9x+3$		$+$		$+$	0	$-$	
$x+1$		$-$	0	$+$		$+$	
$\frac{-9x+3}{x+1}$		$-$	$\|$	$+$	0	$-$	

Donc $D_f = \left]-1, \frac{1}{3}\right]$

9) $f(x) = \frac{x+1}{\sqrt{-2x^2+x+3}}$.

$D_f = \{x \in \mathbb{R} / -2x^2+x+3 > 0\}$

$-2x^2+x+3=0 \quad a=-2$ et $b=1$ et $c=3$

$\Delta = b^2-4ac = (1)^2-4\times(-2)\times 3 = 1+24 = 25 = (5)^2 > 0$

Donc on a deux racines

$x_1 = \frac{-1+5}{2\times(-2)} = \frac{4}{-4} = -1$ et $x_2 = \frac{-1-5}{2\times(-2)} = \frac{-6}{-4} = \frac{3}{2}$

x	$-\infty$		-1		$3/2$		$+\infty$
$-2x^2+x+3$		$-$	0	$+$	0	$-$	

Donc $D_f = \left[-1, \frac{3}{2}\right]$

10) $f(x) = \frac{|x-5|}{x^2+1}$. $\quad D_f = \{x \in \mathbb{R} / x^2+1 \neq 0\}$

$x^2+1=0$ ssi $x^2=-1$

Cette équation n'admet pas de solution dans $\mathbb{R}$

Donc $D_f = \mathbb{R}$

11) $f(x) = \frac{\sqrt{|x|}}{x}$.

$f(x) \in \mathbb{R}$ ssi $\sqrt{|x|} \in \mathbb{R}$ et $x \neq 0$

Or on sait que $|x| \geq 0$ pour tout $x \in \mathbb{R}$

Donc $f(x) \in \mathbb{R}$ ssi $x \neq 0$ Donc $D_f = \mathbb{R} - \{0\} = \mathbb{R}^*$

16) $f(x) = \frac{\sqrt{x+2}}{x-1}$. $\quad D_f = \{x \in \mathbb{R} / x+2 \geq 0 et x-1 \neq 0\}$

$D_f = \{x \in \mathbb{R} / x \geq -2 et x \neq 1\}$

$D_f = [-2,1[\cup]1,+\infty[$

17) $f(x) = 3x^2 - \frac{1}{x} + \sqrt{-x}$

$D_f = \{x \in \mathbb{R} / -x \geq 0 et x \neq 0\}$

$D_f = \{x \in \mathbb{R} / x \leq 0 et x \neq 0\}$ donc : $D_f =]-\infty, 0[$

18) $f(x) = \frac{x}{|2x-4|-|x-1|}$.

$D_f = \{x \in \mathbb{R} / |2x-4|-|x-1| \neq 0\}$

$|2x-4|-|x-1| = 0$ ssi $|2x-4| = |x-1|$

ssi $2x-4 = x-1$ ou $2x-4 = -(x-1)$

ssi $2x-x = 4-1$ ou $2x-4 = -x+1$

ssi $x=3$ ou $2x+x = 4+1$

ssi $x=3$ ou $3x=5$ ssi $x=3$ ou $x = \frac{5}{3}$

Donc $D_f = \mathbb{R} - \left\{\frac{5}{3}; 3\right\}$

19) $f(x) = \frac{2\sin x}{2\cos x - 1}$. $\quad D_f = \{x \in \mathbb{R} / 2\cos x - 1 \neq 0\}$

$2\cos x - 1 = 0$ ssi $\cos x = \frac{1}{2}$

$\cos x = \frac{1}{2}$ ssi $\cos x = \cos\left(\frac{\pi}{3}\right)$

$x = \frac{\pi}{3} + 2k\pi$ ou $x = -\frac{\pi}{3} + 2k\pi$ où $k \in \mathbb{Z}$

Donc: $D_f = \mathbb{R} - \left\{-\frac{\pi}{3} + 2k\pi; \frac{\pi}{3} + 2k\pi / k \in \mathbb{Z}\right\}$

20) $f(x) = \sqrt{\frac{-2x^2+2x+13}{x^2-x-6}}$.

$D_f = \left\{x \in \mathbb{R} / \frac{-2x^2+2x+13}{x^2-x-6} \geq 0 et x^2-x-6 \neq 0\right\}$

- On détermine les racines du trinôme $-2x^2+2x+13$:
Le discriminant est $\Delta' = 2^2 - 4 \times (-2) \times 13 = 108$ et ses racines sont :

$x_1 = \frac{-2-\sqrt{108}}{2\times(-2)} = \frac{1+3\sqrt{3}}{2}$ et $x_2 = \frac{-2+\sqrt{108}}{2\times(-2)} = \frac{1-3\sqrt{3}}{2}$

- On détermine les racines du trinôme x^2-x-6 :
Le discriminant est $\Delta = (-1)^2 - 4 \times (-6) \times 1 = 25$ et ses racines sont :

$x_1' = \frac{-(-1)-\sqrt{25}}{2\times 1} = \frac{1-5}{2} = -2$ et $x_2' = \frac{-(-1)+\sqrt{25}}{2\times 1} = \frac{1+5}{2} = 3$

- On obtient le tableau de signe :

x	$-\infty$		$\frac{1-3\sqrt{3}}{2}$		-2		3		$\frac{1+3\sqrt{3}}{2}$		$+\infty$
$-2x^2+2x+13$		$-$	0	$+$		$+$		$+$	0	$-$	
x^2-x-6		$+$		$+$	0	$-$	0	$+$		$+$	
$\frac{-2x^2+2x+13}{x^2-x-6}$		$-$	0	$+$	‖	$-$	‖	$+$	0	$-$	

$D_f = \left[\frac{1-3\sqrt{3}}{2}; -2\right[\cup \left]3; \frac{1+3\sqrt{3}}{2}\right]$.

21) $f(x) = \sqrt{x^2 + (2\sqrt{3}-\sqrt{2})x - 2\sqrt{6}}$

$D_f = \{x \in \mathbb{R} / x^2 + (2\sqrt{3}-\sqrt{2})x - 2\sqrt{6} \geq 0\}$

$\Delta = b^2 - 4ac = (2\sqrt{3}+\sqrt{2})^2 - 4\times 1\times 2\sqrt{6}$

$\Delta = 12 - 4\sqrt{6} + 2 + 8\sqrt{6} = 14 + 4\sqrt{6}$

$14+4\sqrt{6} = 14 + 2\times 2\sqrt{3}\times\sqrt{2} = (2\sqrt{3})^2 + 2\times 2\sqrt{3}\times\sqrt{2} + (\sqrt{2})^2$

$14+4\sqrt{6} = (2\sqrt{3}+\sqrt{2})^2$

On a $\Delta = 14+4\sqrt{6} > 0$ donc

$x_1 = \frac{-2\sqrt{3}+\sqrt{2}+\sqrt{14+4\sqrt{6}}}{2\times 1} = \frac{-2\sqrt{3}+\sqrt{2}+|2\sqrt{3}+\sqrt{2}|}{2\times 1}$

et $x_2 = \dfrac{-2\sqrt{3}+\sqrt{2}-\left|2\sqrt{3}+\sqrt{2}\right|}{2\times 1}$

$x_1 = \dfrac{-2\sqrt{3}+\sqrt{2}+2\sqrt{3}+\sqrt{2}}{2\times 1} = \dfrac{2\sqrt{2}}{2} = \sqrt{2}$ et

$x_2 = \dfrac{-2\sqrt{3}+\sqrt{2}-2\sqrt{3}-\sqrt{2}}{2\times 1} = \dfrac{-4\sqrt{3}}{2} = -2\sqrt{3}$

x	$-\infty$		$-2\sqrt{3}$		$\sqrt{2}$		$+\infty$
$x^2+(2\sqrt{3}-\sqrt{2})x-2\sqrt{6}$		+	0	−	0	+	

On a donc : $D_f = \left]-\infty;-2\sqrt{3}\right]\cup\left[\sqrt{2};+\infty\right[$

II) Egalité de deux fonctions – Représentations graphique

1)Egalité de deux fonctions

Définition : Soient f et g deux fonctions, et D_f et D_g leurs domaines de définition respectifs
on dit que f et g sont égaux et on écrit f=g.
si et seulement si :
$D_f = D_g$ et pour tout $x \in D_f$ (ou $x \in D_g$) on a f(x)=g(x)

Exemple 1 : Soient les deux fonctions :

$f(x) = \dfrac{3x^2+1}{\sqrt{x^2}}$ et $g(x) = \dfrac{1+3x^2}{|x|}$

- on a $f(x) \in \mathbb{R}$ ssi $\sqrt{x^2} \in \mathbb{R}$ et $x \neq 0$

or on sait que $x^2 \geq 0$ donc $\sqrt{x^2} \in \mathbb{R}$ pour tout $x \in \mathbb{R}$
alors $f(x) \in \mathbb{R}$ ssi $x \neq 0$ donc $D_f = \mathbb{R}^*$

- on a $g(x) \in \mathbb{R}$ ssi $|x| \neq 0$ ssi $x \neq 0$

donc $D_g = \mathbb{R}^*$

alors $D_f = D_g = \mathbb{R}^*$

on sait que $\sqrt{x^2} = |x|$ et $3x^2+1 = 1+3x^2$ donc f(x)=g(x)

donc finalement on a trouvé que : $D_f = D_g = \mathbb{R}^*$ et f(x)=g(x) donc : f=g.

Exemple 2 : Soient les deux fonctions :

$h(x) = \dfrac{x^2-x}{x}$ et $t(x) = x-1$

- on a $h(x) \in \mathbb{R}$ ssi $x \neq 0$ donc $D_h = \mathbb{R}^*$
- on a $t(x)$ est un polynôme donc $D_t = \mathbb{R}$

alors $D_h \neq D_t$ donc : $h \neq t$

2) Représentations graphique

Dans ce paragraphe le plan est rapporté a un repère $(O,\vec{i},\vec{j})$

Définition : Soit f une fonction , et D_f son domaine de définition
l'ensemble des points M $(x, f(x))$ forme la courbe représentative de la fonction f, souvent notée C_f .

$C_f = \{M(x, f(x)) / x \in D_f\}$

Méthode :
Pour tracer la courbe représentative de la fonction On calcule des images en nombre suffisant, et on présente les résultats dans un tableau de valeurs.

Exemple 1 : Tracer la représentation graphique de la fonction f tq : $f(x) = \dfrac{1}{x^2+1}$

Sur I un l'intervalle $I = [-2;3]$

Réponses :

x	−2	−1	0	1	2	3
$f(x)$	0,2	0,5	1	0,5	0,2	0,1

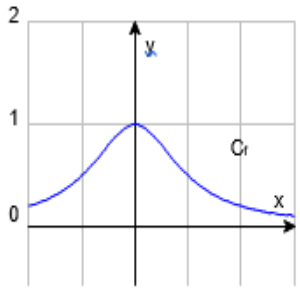

Exemple 2 : la courbe représentative d'une fonction affine f ($f(x) = ax+b$ avec $a \in \mathbb{R}$ et $b \in \mathbb{R}$) est une droite d'équation $y = ax+b$

Exemple 3 : Soie f une fonction tq : $f(x) = |2x+3|$

- on a $f(x) \in \mathbb{R}$ donc $D_f = \mathbb{R}$

x		$\frac{-3}{2}$		$+\infty$
$2x+3$	−	0	+	
$\|2x+3\|$	$-2x-3$		$2x+3$	

$2x+3=0$ ssi $x = \dfrac{-3}{2}$

Donc $f(x) = 2x+3$ si $x \in \left[-\dfrac{3}{2},+\infty\right[$

$f(x) = -2x-3$ si $x \in \left]-\infty,-\dfrac{3}{2}\right]$

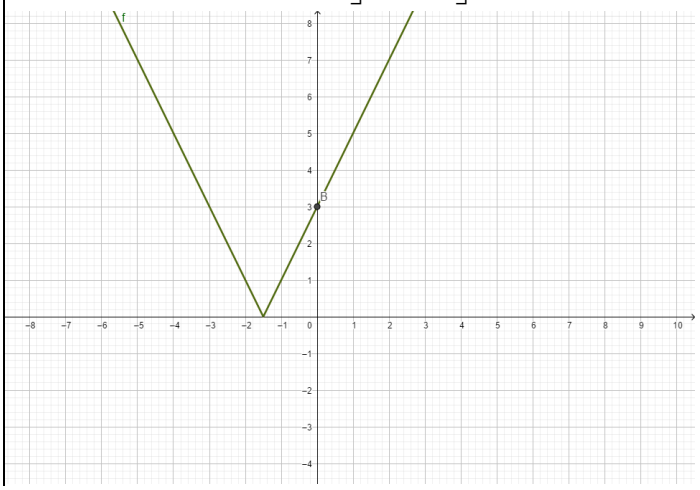

Exemple 4: Soie f une fonction tq : $f(x)=|x-2|+|x+2|$

- on a $f(x)\in\mathbb{R}$ donc $D_f=\mathbb{R}$

$x+2=0$ ssi $x=-2$
$x-2=0$ ssi $x=2$

x	$-\infty$	-2	2	$+\infty$
$x-2$	$-$	$-$	0	$+$
$\|x-2\|$	$-x+2$	$-x+2$		$x-2$
$x+2$	$-$	0 $+$		$+$
$\|x+2\|$	$-x-2$	$x+2$		$x+2$
$\|x-2\|+\|x+2\|$	$-2x$	4		$2x$

Donc $f(x)=-2x$ si $x\in]-\infty,-2]$ et $f(x)=4$ si $x\in[-2,2]$ et $f(x)=2x$ si $x\in[2,+\infty[$

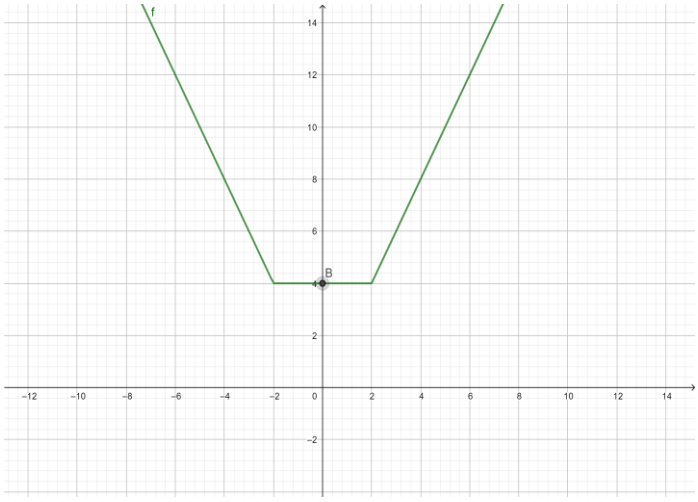

Exemple 5 : La courbe ci-dessous représente la fonction f définie sur $[-6;7]$

Soie f une fonction
Questions : Répondre par lecture graphique :

1- Quelles sont les images des réels -5, -3, 0 et 6 ?
2- Quels sont les antécédents de -1 et 0 ?
3- Résoudre graphiquement $f(x)=0$
4- Quel est, en fonction de m , le nombre de solutions de $f(x)=m$
5- Résoudre graphiquement $f(x)\prec 0$
6- Résoudre graphiquement $f(x)\geq 2$

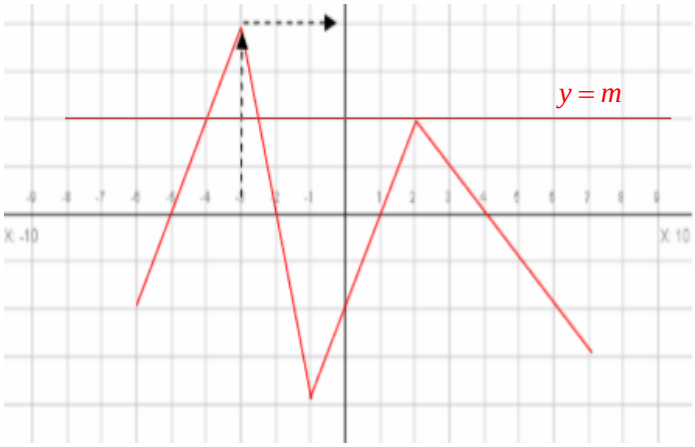

Réponses : 1) Image de -5 est 0 (ordonnée du point d'abscisse -5) Image de -3 est 4
Image de 0 est -2 Image de 6 est -2
2) Antécédents de -1 sont : -5,5 -1,75 0,5 et 5
Antécédents de 0 sont : -5 -2 1 et 4
3) La solution est l'ensemble des antécédents de 0 :
$S=\{-5;-2;1;4\}$
4)Nombre de solutions de $f(x)=m$ C'est le nombre de points d'intersection de courbe avec une la droite parallèle à l'axes des abscisses et d'ordonnées m.
Si $m\prec -4$: pas de solution
Si $m=-4$: une solution
Si: $-4\prec m\prec -3$ deux solutions
Si $-3\prec m\prec -2$: trois solutions
Si $-2\prec m\prec 2$: quatre solutions
Si $m=2$: trois solutions
Si: $2\prec m\prec 4$ deux solutions
Si $m=4$: une solution
Si $m\succ 4$: pas de solution
5) $f(x)\prec 0$ Cela correspond aux valeurs de x pour lesquelles C_f est au-dessous de l'axe des abscisses.
$S=[-6;7]\cup]-2;1[\cup]4;7]$
6) $f(x)\geq 2$ Cela correspond aux valeurs de x pour lesquelles C_f est au-dessus de la droite d'équation $y=2$
donc $S=[-4;2.5]\cup\{2\}$

III) Fonctions paires et Fonctions impaires

1. Définitions :

a. Ensemble de définition centré

Soit f une fonction. Soit D_f son ensemble de définition.

On dit que D_f est un ensemble de définition centré si et et seulement si :Pour tout réel *x*, si $x\in D_f$, alors $-x\in D_f$.

b. Fonction paire

On dit qu'une fonction *f* est paire si et seulement si :
1. Son ensemble de définition est centré
2. Pour tout réel *x* de D_f, on a : $f(-x)=f(x)$

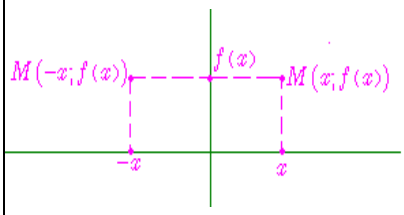

Remarques :

- si *n* est un entier pair, positif ou négatif, la fonction définie par $f(x)=kx^n$ est paire.
(C'est d'ailleurs de cet exemple que vient la dénomination de fonction paire)
- la fonction $x\mapsto|x|$ est une fonction paire,
- la fonction $x\mapsto\cos(x)$ est une fonction paire,
- l'opposée d'une fonction paire est une fonction paire,
- l'inverse d'une fonction paire est une fonction paire,
- la somme de deux fonctions paires est une fonction paire,

- le produit de 2 fonctions paires ou de 2 fonctions impaires est une fonction paire.

c. Fonction impaire

On dit qu'une fonction f est impaire si et seulement si :

1. Son ensemble de définition est centré,
2. Pour tout réel x de D_f, on a : $f(-x) = -f(x)$

Remarques :

- si n est un entier impair, positif ou négatif, la fonction $x \mapsto kx^n$ est impaire,
- la fonction $x \mapsto \sin(x)$ est impaire,
- la fonction $x \to \tan x$ est impaire,
- l'opposée d'une fonction impaire est une fonction impaire,
- l'inverse d'une fonction impaire est une fonction impaire,
- la somme de deux fonctions impaires est une fonction impaire,
- le produit d'une fonction paire et d'une fonction impaire est une fonction impaire.

Exemples : 1) Soit f une fonction tq : $f(x) = 3x^2 - 5$

f est une fonction polynôme donc Un réel a toujours une image.

Donc $D_f = \mathbb{R}$

- Pour tout réel x, si $x \in \mathbb{R}$, alors $-x \in \mathbb{R}$
- $f(-x) = 3(-x)^2 - 5 = 3x^2 - 5$

  $f(-x) = f(x)$

Donc f est une fonction paire,

2) Soit g une fonction tq : $g(x) = \dfrac{3}{x}$

on a $g(x) \in \mathbb{R}$ ssi $x \neq 0$

donc $D_g = \mathbb{R}^*$

- Pour tout réel x, si $x \in \mathbb{R}^*$, alors $-x \in \mathbb{R}^*$
- $g(-x) = \dfrac{3}{-x} = -\dfrac{3}{x}$

  $g(-x) = -g(x)$

Donc g est une fonction impaire,

3) Soit h une fonction tq : $h(x) = 2x^3 + x^2$

h est une fonction polynôme donc Un réel a toujours une image.

Donc $D_h = \mathbb{R}$

- Pour tout réel x, si $x \in \mathbb{R}$, alors $-x \in \mathbb{R}$
- $h(-x) = 2(-x)^3 + (-x)^2 = -2x^3 + x^2$

  $h(-x) = -(2x^3 - x^2) \neq -h(x)$

  Donc h est une fonction ni paire ni impaire,

4) Soit t une fonction tq : $t(x) = \dfrac{x}{x-2}$

on a $t(x) \in \mathbb{R}$ ssi $x - 2 \neq 0$ ssi $x \neq 2$

Donc $D_t = \mathbb{R} - \{2\}$

on a $-2 \in D_t$ mais $-(-2) = 2 \notin D_t$

Donc D_t n'est pas symétrique par rapport a O

Donc h est une fonction ni paire ni impaire,

2. le graphe et la parité de la fonction

- la courbe représentative d'une fonction paire est symétrique par à l'axe des ordonnées.

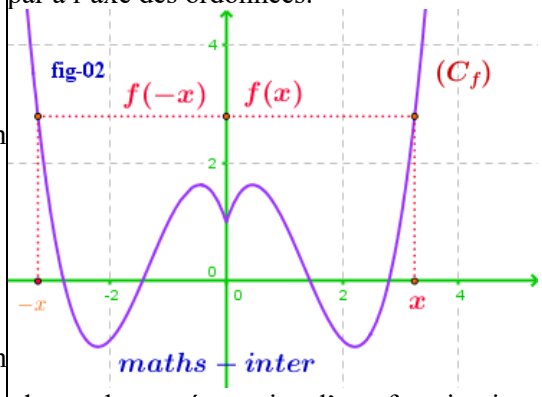

- la courbe représentative d'une fonction impaire est symétrique par rapport à l'origine.

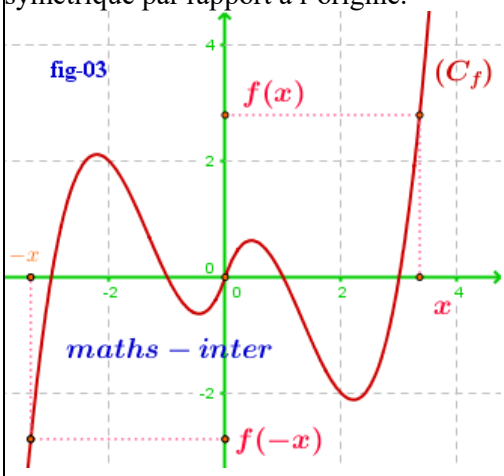

Application :

Etudier la parité des fonctions suivantes définie par

1) $f(x) = \dfrac{x^2 - 1}{x}$. 2) $f(x) = x^2 + \dfrac{1}{x}$.

3) $f(x) = \dfrac{|x|}{x^2 - 1}$ 4) $f(x) = \sqrt{1 - x^2}$ 5) $f(x) = \dfrac{2x^3}{x^2 + 5}$.

6) $f(x) = |x| - \sqrt{2x^2 + 4}$. 7) $f(x) = \dfrac{\sqrt{x}}{2}$.

<u>Solutions</u>

1) $f(x) = \dfrac{x^2 - 1}{x}$ on a $f(x) \in \mathbb{R}$ ssi $x \neq 0$

donc $D_f = \mathbb{R}^*$

Pour tout réel x, si $x \in \mathbb{R}^*$, alors $-x \in \mathbb{R}^*$

$f(-x) = \dfrac{(-x)^2 - 1}{-x} = -\dfrac{x^2 - 1}{x}$

$f(-x) = -f(x)$

Donc f est une fonction impaire,

2) $f(x) = x^2 + \dfrac{1}{x}$ on a $f(x) \in \mathbb{R}$ ssi $x \neq 0$

donc $D_f = \mathbb{R}^*$

- Pour tout réel x, si $x \in \mathbb{R}^*$, alors $-x \in \mathbb{R}^*$

- $f(-x)=(-x)^2+\frac{1}{-x}=x^2-\frac{1}{x}=\left(-x^2+\frac{1}{x}\right)$

$f(-x)\neq -f(x)$

Donc f est une fonction ni paire ni impaire,

3) $f(x)=\frac{|x|}{x^2-1}$ on a $f(x)\in\mathbb{R}$ ssi $x^2-1\neq 0$

$x^2-1=0$ ssi $x^2=1$ ssi $x=1$ ou $x=-1$

donc $D_f=\mathbb{R}-\{-1;1\}$

- Pour tout réel x, si $x\in\mathbb{R}-\{-1;1\}$, alors $-x\in\mathbb{R}-\{-1;1\}$

- $f(-x)=\frac{|-x|}{(-x)^2-1}=\frac{|x|}{x^2-1}$

$f(-x)=f(x)$

Donc f est une fonction paire

4) $f(x)=\sqrt{1-x^2}$.

$D_f=\{x\in\mathbb{R}/1-x^2\geq 0\}$

$1-x^2=0$ ssi $x^2=1$ ssi $x=1$ ou $x=-1$

x	$-\infty$		-1		1		$+\infty$
$1-x^2$		$-$	0	$+$	0	$-$	

Donc $D_f=[-1,1]$

- Pour tout réel x, si $x\in[-1,1]$, alors $-x\in[-1,1]$

- $f(-x)=\sqrt{1-(-x)^2}=\sqrt{1-x^2}$

$f(-x)=f(x)$

Donc f est une fonction paire

5) $f(x)=\frac{2x^3}{x^2+5}$.

$D_f=\{x\in\mathbb{R}/x^2+5\neq 0\}$

$x^2+5=0$ ssi $x^2=-5$ pas de solutions

Donc $D_f=\mathbb{R}$

- Pour tout réel x, si $x\in\mathbb{R}$, alors $-x\in\mathbb{R}$

- $f(-x)=\frac{2(-x)^3}{(-x)^2+5}=\frac{-2x^3}{x^2+5}$

$f(-x)=-f(x)$

Donc f est une fonction impaire

6) $f(x)=|x|-\sqrt{2x^2+4}$.

$D_f=\{x\in\mathbb{R}/2x^2+4\geq 0\}$

Or on sait que $2x^2\geq 0$ Pour tout réel x, donc $2x^2+4\geq 0+4$ donc $2x^2+4\geq 4\geq 0$

Donc $D_f=\mathbb{R}$

- Pour tout réel x, si $x\in\mathbb{R}$, alors $-x\in\mathbb{R}$

- $f(-x)=|-x|-\sqrt{2(-x)^2+4}=|x|-\sqrt{2x^2+4}$

$f(-x)=f(x)$

Donc f est une fonction paire

6) $f(x)=\frac{\sqrt{x}}{2}$. $D_f=\{x\in\mathbb{R}/x\geq 0\}$ Donc

$D_f=\mathbb{R}^+=[0;+\infty[$

On a $2\in\mathbb{R}^+$ mais $-2\notin\mathbb{R}^+$ Donc f est une fonction ni paire ni impaire

IV) Les variations d'une fonction numérique

1) Sens de variation d'une fonction :fonction croissante -décroissante -fonction constantes

Définition : Soit f une fonction et D_f son domaine de définition et soit I un intervalle inclus dans D_f

- Dire f que est strictement croissante sur I (croissante sur I) signifie que :

Si $x_1\in I$ et $x_2\in I$ tq $x_1\prec x_2$ alors $f(x_1)\prec f(x_2)$ $(f(x_1)\leq f(x_2))$

Rq : Une fonction croissante « conserve l'ordre ».

- Dire f que est strictement décroissante sur I (décroissante sur I) signifie que :

Si $x_1\in I$ et $x_2\in I$ tq $x_1\prec x_2$ alors $f(x_1)\succ f(x_2)$ $(f(x_1)\geq f(x_2))$

Rq : Une fonction décroissante « inverse l'ordre ».

- Dire f que est constante sur I signifie que :

Si $x_1\in I$ et $x_2\in I$ tq $x_1\prec x_2$ alors $f(x_1)=f(x_2)$

- Une fonction définie sur un intervalle I est monotone sur cet intervalle si elle est : soit croissante sur I soit décroissante sur I

Illustration graphique :

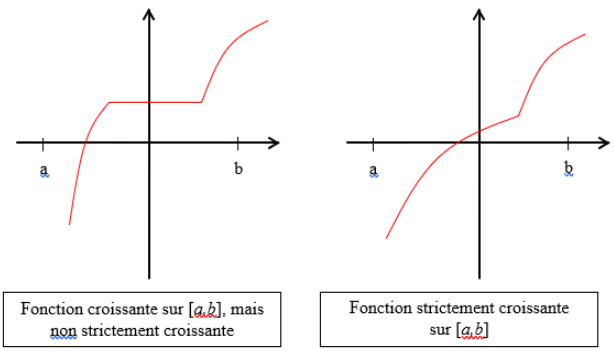

Exemples : 1) Soit f une fonction tq : $f(x)=7x-5$

f est une fonction polynôme donc $D_f=\mathbb{R}$

Soit $x_1\in\mathbb{R}$ et $x_2\in\mathbb{R}$ tq $x_1\prec x_2$

Donc $7x_1\prec 7x_2$ car $7\succ 0$

Donc $7x_1-5\prec 7x_2-5$

Alors $f(x_1) \prec f(x_2)$ d'où f que est strictement croissante sur $\mathbb{R}$

2) Soit g une fonction tq : $g(x) = \frac{2}{x}$

$g(x) \in \mathbb{R}$ ssi $x \neq 0$

Donc $D_g = \mathbb{R} - \{0\} = \mathbb{R}^*$

a)Soit $x_1 \in [0;+\infty[$ et $x_2 \in [0;+\infty[$ tq $x_1 \prec x_2$

Donc $\frac{1}{x_1} \succ \frac{1}{x_2}$ Donc $\frac{2}{x_1} \succ \frac{2}{x_2}$ car $2 \succ 0$

Alors $f(x_1) \succ f(x_2)$ d'où f que est strictement décroissante sur $[0;+\infty[$

b)Soit $x_1 \in]-\infty;0]$ et $x_2 \in]-\infty;0]$ tq $x_1 \prec x_2$

Donc $\frac{1}{x_1} \succ \frac{1}{x_2}$ Donc $\frac{2}{x_1} \succ \frac{2}{x_2}$ car $2 \succ 0$

Alors $f(x_1) \succ f(x_2)$ d'où f que est strictement décroissante sur $]-\infty;0]$

b) **tableau de variation :**

x	$-\infty$	0	$+\infty$
$f(x)$	↘	‖	↘

3)

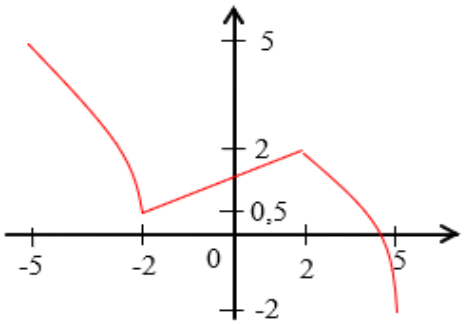

x	-5		-2		2		5
f(x)	5	↘	0,5	↗	2	↘	-2

Propriété : Soit f une fonction numérique définie sur un intervalle I

On dit que f est strictement constante sur I ssi il existe un réel k tq: $f(x) = k$

pour tout $x \in I$

2) Le taux d'accroissement d'une fonction

a)Définition : Soit f une fonction et D_f son domaine de définition

Et soient $x_1 \in D_f$ et $x_2 \in D_f$ tq $x_1 \neq x_2$

On appelle Le taux d'accroissement (taux de variation) de la fonction f entre x_1 et x_2

Le réel noté $T(x_1;x_2)$ est tq : $T(x_1;x_2) = \frac{f(x_1) - f(x_2)}{x_1 - x_2}$

Exemple : Soit f une fonction tq : $f(x) = 3x^2 + 2$

f est une fonction polynôme donc $D_f = \mathbb{R}$

soient $x_1 \in \mathbb{R}$ et $x_2 \in \mathbb{R}$ tq $x_1 \neq x_2$

$$T(x_1;x_2) = \frac{f(x_1) - f(x_2)}{x_1 - x_2} = \frac{(3x_1^2 + 2) - (3x_2^2 + 2)}{x_1 - x_2}$$

$$T(x_1;x_2) = \frac{3x_1^2 - 3x_2^2 + 2 - 2}{x_1 - x_2} = \frac{3(x_1^2 - x_2^2)}{x_1 - x_2}$$

$$T(x_1;x_2) = \frac{3(x_1 - x_2)(x_1 + x_2)}{x_1 - x_2} = 3(x_1 + x_2)$$

b) Le taux d'accroissement d'une fonction et les variations :

Propriété : Soit f une fonction numérique définie sur un intervalle I

- On dit que f est strictement croissante(croissante) sur I ssi pour tout $x_1 \in I$ et $x_é \in I$ et $x_1 \neq x_2$ on a $\frac{f(x_1) - f(x_2)}{x_1 - x_2} \succ 0$ ($\frac{f(x_1) - f(x_2)}{x_1 - x_2} \geq 0$)
- On dit que f est strictement décroissante(décroissante) sur I ssi pour tout $x_1 \in I$ et $x_é \in I$ et $x_1 \neq x_2$ on a $\frac{f(x_1) - f(x_2)}{x_1 - x_2} \prec 0$ ($\frac{f(x_1) - f(x_2)}{x_1 - x_2} \leq 0$)
- On dit que f est constante sur I ssi pour tout $x_1 \in I$ et $x_é \in I$ et $x_1 \neq x_2$ on a $\frac{f(x_1) - f(x_2)}{x_1 - x_2} = 0$

Exemples : 1)Soit f une fonction tq : $f(x) = 3x^2 + 2$

$D_f = \mathbb{R}$

soient $x_1 \in \mathbb{R}$ et $x_2 \in \mathbb{R}$ tq $x_1 \neq x_2$ on a :

$T(x_1;x_2) = 3(x_1 + x_2)$

a)Soit $x_1 \in [0;+\infty[$ et $x_2 \in [0;+\infty[$

Donc $x_1 \geq 0$ et $x_2 \geq 0$ Donc $x_1 + x_2 \geq 0$

Donc $3(x_1 + x_2) \geq 0$ car $3 \succ 0$

Donc $T(x_1;x_2) = 3(x_1 + x_2) \geq 0$

d'où f que est croissante sur $[0;+\infty[$

b)Soit $x_1 \in]-\infty;0]$ et $x_2 \in]-\infty;0]$

Donc $x_1 \leq 0$ et $x_2 \leq 0$ Donc $x_1 + x_2 \leq 0$

Donc $3(x_1 + x_2) \leq 0$ car $3 \succ 0$

Donc $T(x_1;x_2) = 3(x_1 + x_2) \leq 0$

d'où f que est décroissante sur $]-\infty;0]$

b) résumé : **tableau de variation :** $f(0)=3\times 0^2+2=2$

x	$-\infty$	0	$+\infty$
$f(x)$	$\searrow$	2	$\nearrow$

2)Soit f une fonction tq : $g(x)=\dfrac{x}{x+1}$

on a $f(x)\in\mathbb{R}$ ssi $x+1\neq 0$ ssi $x\neq -1$

Donc $D_g=\mathbb{R}-\{-1\}$

soient $x_1\in D_g$ et $x_2\in D_g$ tq $x_1\neq x_2$

on a : $T(x_1;x_2)=\dfrac{g(x_1)-g(x_2)}{x_1-x_2}$

$$g(x_1)-g(x_2)=\frac{x_1}{x_1+1}-\frac{x_2}{x_2+1}=\frac{x_1(x_2+1)-x_2(x_1+1)}{(x_1+1)(x_2+1)}$$

$$T(x_1;x_2)=\frac{x_1-x_2}{(x_1+1)(x_2+1)}\times\frac{1}{x_1-x_2}=\frac{1}{(x_1+1)(x_2+1)}$$

a)sur $I=]-\infty;-1[$

Soit $x_1\in]-\infty;-1[$ et $x_2\in]-\infty;-1[$ $x_1\neq x_2$

Donc $x_1\prec -1$ et $x_2\prec -1$ Donc $x_1+1\prec 0$ et $x_2+1\prec 0$ Donc $(x_1+1)(x_2+1)\succ 0$ Donc

$T(x_1;x_2)=\dfrac{1}{(x_1+1)(x_2+1)}\succ 0$ sur $I=]-\infty;-1[$

d'où g que est strictement croissante sur $I=]-\infty;-1[$

b)sur $J=]-1;+\infty[$

Soit $x_1\in]-1;+\infty[$ et $x_2\in]-1;+\infty[$ $x_1\neq x_2$

Donc $x_1\succ -1$ et $x_2\succ -1$ Donc $x_1+1\succ 0$ et $x_2+1\succ 0$ Donc $(x_1+1)(x_2+1)\succ 0$ Donc

$T(x_1;x_2)=\dfrac{1}{(x_1+1)(x_2+1)}\succ 0$ sur $J=]-1;+\infty[$

d'où g que est strictement croissante sur $J=]-1;+\infty[$

c) résumé : **tableau de variation :**

x	$-\infty$	-1	$+\infty$
$f(x)$	$\nearrow$	‖	$\nearrow$

c) les variations et la parité :

Propriété : Soit f une fonction numérique définie sur un intervalle $I\subset\mathbb{R}^+$ et soit I' le symétrique de l'intervalle I

Si f est paire alors :

- f est croissante sur I ssi f est décroissante sur I'
- f est décroissante sur I ssi f est croissante sur I'

Si f est impaire alors :

- f est croissante sur I ssi f est croissante sur I'
- f est décroissante sur I ssi f est décroissante sur I'

Conséquences :

Si f est paire ou impaire alors il suffit d'étudier ses variations sur $D_f\cap\mathbb{R}^+$ et en déduire ses variations sur D_f

Applications: Soit f une fonction tq : $f(x)=x+\dfrac{1}{x}$

1)Déterminer D_f et étudier la parité de f

2)Calculer Le taux d'accroissement $T(x_1;x_2)$ de f entre x_1 et x_2 deux éléments de D_f tq $x_1\neq x_2$

3)Étudier les variations de f sur $I=]0;1]$ puis sur $J=[1;+\infty[$

4)En déduire les variations de f sur D_f

5)Dresser le tableau de variations de f sur D_f

Réponses : 1) on a $f(x)\in\mathbb{R}$ ssi $x\neq 0$ Donc $D_f=\mathbb{R}-\{0\}=\mathbb{R}^*$

- Pour tout réel *x*, si $x\in\mathbb{R}^*$, alors $-x\in\mathbb{R}^*$
- $f(-x)=-x+\dfrac{1}{-x}=-x-\dfrac{1}{x}=-\left(x+\dfrac{1}{x}\right)$

  $f(-x)=-f(x)$

Donc f est une fonction impaire,

2) $f(x_1)-f(x_2)=\left(x_1+\dfrac{1}{x_1}\right)-\left(x_2+\dfrac{1}{x_2}\right)=x_1+\dfrac{1}{x_1}-x_2-\dfrac{1}{x_2}$

$$=\frac{x_1^2\times x_2+x_2-x_2^2\times x_1-x_1}{x_1\times x_2}=\frac{x_1\times x_2(x_1-x_2)+x_2-x_1}{x_1\times x_2}=\frac{(x_1-x_2)(x_1\times x_2-1)}{x_1\times x_2}$$

$$T(x_1;x_2)=\frac{(x_1-x_2)(x_1\times x_2-1)}{x_1\times x_2}\times\frac{1}{x_1-x_2}=\frac{x_1\times x_2-1}{x_1\times x_2}$$

a)sur $I=]0;1]$

Soit $x_1\in]0;1]$ et $x_2\in]0;1]$

Donc $0\prec x_1\leq 1$ et $0\prec x_2\leq 1$ $x_2+1\prec 0$

Donc $0\prec x_1x_2\leq 1$ et $x_1\neq x_2$ Donc $x_1x_2-1\prec 0$ et on a $0\prec x_1x_2$ Donc $T(x_1;x_2)=\dfrac{x_1\times x_2-1}{x_1\times x_2}\prec 0$

d'où f que est strictement décroissante sur $I=]0;1]$

b)sur $J=[1;+\infty[$

Soit $x_1\in[1;+\infty[$ et $x_2\in[1;+\infty[$

Donc $x_1\geq 1$ et $x_2\geq 1$ Donc $x_1x_2\geq 1$ et $x_1\neq x_2$

Donc $x_1x_2\succ 1$ Donc $x_1x_2-1\succ 0$

et on a $0\prec x_1x_2$ Donc $T(x_1;x_2)=\dfrac{x_1\times x_2-1}{x_1\times x_2}\succ 0$

d'où f que est strictement croissante sur $J=[1;+\infty[$

3) f est impaire et le symétrique de $I=]0;1]$ est l'intervalle $I'=[-1;0[$ et le symétrique de $J=[1;+\infty[$ est l'intervalle $J'=]-\infty;-1]$

Donc : f est strictement décroissante sur I Donc f est strictement décroissante sur I'

f est strictement croissante sur J Donc f est strictement croissante sur J'

5) le tableau de variations de f sur D_f

$f(x)=1+\frac{1}{1}=2$

x	$-\infty$	-1	0	1	$+\infty$
Variations de $f(x)$	↗	-2	↘ ‖ ↘	2	↗

$f(-1)=-1-\frac{1}{1}=-2$

V) Les extremums d'une fonction numérique

1)Définitions :

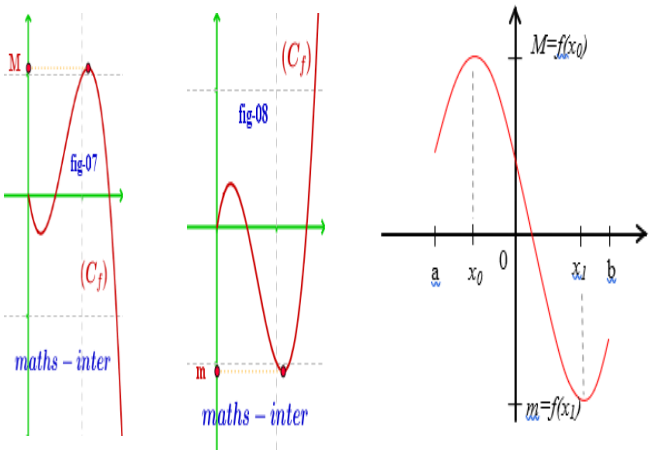

Soit f une fonction numérique définie sur un intervalle ouvert I et soit $a\in I$

- Dire que $f(a)$ est une valeur maximale de f sur I (ou $f(a)$ est un maximum de f sur I) ssi pour tout que $x\in I$: $f(x)\le f(a)$
- Dire que $f(a)$ est une valeur minimale de f sur I (ou $f(a)$ est un minimum de f sur I) ssi pour tout $x\in I$: $f(x)\ge f(a)$

2)Exemples

1° Soit f une fonction numérique tq : $f(x)=5x^2+3$

$D_f=\mathbb{R}$

On a pour tout $x\in\mathbb{R}$ $x^2\ge 0$ Donc $5x^2\ge 0$ car $5\succ 0$

Par suite $5x^2+3\ge 3$ et on a $f(0)=3$

Donc pour tout $x\in\mathbb{R}$ $f(x)\ge f(0)$

d'où $f(0)=3$ est un minimum de f sur $\mathbb{R}$

2° Soit g une fonction numérique tq : $g(x)=-4x^2+1$

$D_g=\mathbb{R}$ et On a pour tout $x\in\mathbb{R}$ $x^2\ge 0$

Donc $-4x^2\le 0$ car $-4\prec 0$

Par suite $-4x^2+1\le 1$ et on a $g(0)=1$

Donc pour tout $x\in\mathbb{R}$ $g(x)\le g(0)$

d'où $g(0)=1$ est un maximum de g sur $\mathbb{R}$

3)Propriétés :

Soit f une fonction numérique définie sur un intervalle ouvert $I=[a;b]$ (a et b dans $\mathbb{R}$) et soit $c\in I$

- Si f est croissante sur $[a;c]$ et décroissante sur $[c;b]$ alors $f(c)$ est une valeur maximale de f sur I
- Si f est décroissante sur $[a;c]$ et croissante sur $[c;b]$ alors $f(c)$ est une valeur minimale de f sur I

x	a	c	b
$f(x)$	↗	$f(c)$	↘

x	a	c	b
$f(x)$	↘	$f(c)$	↗

Application : Soit f une fonction numérique tq :

$f(x)=-4x^2+4x+5$

1°a) montrer que $f(x)=6-(2x-1)^2$ pour tout $x\in\mathbb{R}$

b) montrer que $f(x)\le 6$ pour tout $x\in\mathbb{R}$

2° calculer : $f\left(\frac{1}{2}\right)$ et en déduire les extrémums de f sur $\mathbb{R}$

Reponses: 1°a) on a $D_f=\mathbb{R}$

$6-(2x-1)^2=6-(4x^2-4x+1)$

$=6-4x^2+4x-1=-4x^2+4x+5$

Donc : $f(x)=6-(2x-1)^2$

b) Donc pour tout $x\in\mathbb{R}$ on a $(2x-1)^2\ge 0$

Par suite $-(2x-1)^2\le 0$ donc $6-(2x-1)^2\le 6$

Donc pour tout $x\in\mathbb{R}$ $f(x)\le 6$

2° on a $f\left(\frac{1}{2}\right)=6-\left(2\times\frac{1}{2}-1\right)^2=6-(1-1)^2=6$

on a pour tout $x\in\mathbb{R}$ $6-(2x-1)^2\le 6$ alors

$f(x)\le f\left(\frac{1}{2}\right)$ pour tout $x\in\mathbb{R}$

Donc $f\left(\frac{1}{2}\right)=6$ est un maximum de f sur $\mathbb{R}$

VI) Etude et représentation graphique des fonctions $x \xrightarrow{f} ax^2$

Soit f une fonction numérique tq : $f(x) = ax^2$

avec $a \in \mathbb{R}^*$

1° on a f est une fonction polynôme donc $D_f = \mathbb{R}$

2° Pour tout réel x, si $x \in \mathbb{R}$, alors $-x \in \mathbb{R}$

$f(-x) = a(-x)^2 = ax^2$

$f(-x) = f(x)$

Donc f est une fonction paire,

Donc il suffit d'étudier la monotonie sur $I = [0;+\infty[$

3° soient $x_1 \in [0;+\infty[$ et $x_2 \in [0;+\infty[$ tq $x_1 \neq x_2$

$$T(x_1;x_2) = \frac{f(x_1) - f(x_2)}{x_1 - x_2} = \frac{ax_1^2 - ax_2^2}{x_1 - x_2} = \frac{a(x_1 - x_2)(x_1 + x_2)}{x_1 - x_2}$$

Donc $T(x_1;x_2) = a(x_1 + x_2)$

1iér cas : si $a \succ 0$

On a : $x_1 \in [0;+\infty[$ donc $x_1 \geq 0$ et $x_2 \in [0;+\infty[$ donc $x_2 \geq 0$

Donc $x_1 + x_2 \geq 0$ et puisque $x_1 \neq x_2$ Donc $x_1 + x_2 \succ 0$

Et on a : $a \succ 0$ donc sur $[0;+\infty[$ $T(x_1;x_2) \succ 0$

Et alors f est strictement croissante sur $[0;+\infty[$

et puisque f est une fonction paire alors f est strictement décroissante sur $]-\infty;0]$

Tableau de variations de f si $a \succ 0$

x	$-\infty$	0	$+\infty$
$f(x)$	$+\infty$ ↘	0	↗ $+\infty$

2iér cas : si $a \prec 0$

On a : $x_1 \in]-\infty;0]$ donc $x_1 \leq 0$ et $x_2 \in]-\infty;0]$ donc $x_2 \leq 0$

Donc $x_1 + x_2 \leq 0$ et puisque $x_1 \neq x_2$ Donc $x_1 + x_2 \prec 0$

Et on a : $a \prec 0$ donc sur $]-\infty;0]$ $T(x_1;x_2) \prec 0$

Et alors f est strictement décroissante croissante sur $[0;+\infty[$

et puisque f est une fonction paire alors f est strictement croissante sur $]-\infty;0]$

Tableau de variations de f si $a \prec 0$

x	$-\infty$	0	$+\infty$
$f(x)$	$+\infty$ ↗	0	↘ $+\infty$

4° Représentation graphique

Définition : dans un Repére orthonormé $(0;\vec{i};\vec{j})$ la courbe représentative de la fonction $x \xrightarrow{f} ax^2$ avec $a \in \mathbb{R}^*$ s'appelle une parabole dont les éléments caractéristiques sont son sommet qui est l'origine du repére et son axe de symétrie qui est l'axe des ordonnées

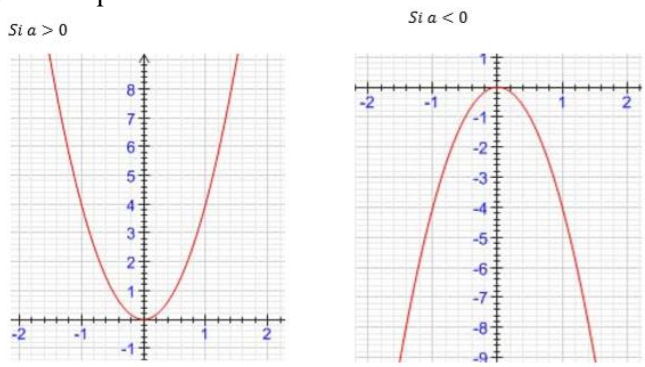

Exemples

1° Soit f une fonction numérique tq : $f(x) = \frac{1}{2}x^2$

$D_f = \mathbb{R}$ et On a $a = \frac{1}{2} \succ 0$

Donc : Tableau de variations de f

x	$-\infty$	0	$+\infty$
$f(x)$	$+\infty$ ↘	0	↗ $+\infty$

x	0	1	2	3
$f(x)$	0	$\frac{1}{2}$	2	$\frac{9}{2}$

Représentation graphique :

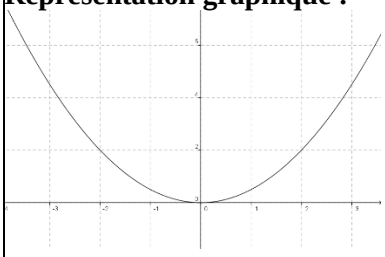

2° Soit f une fonction numérique tq : $f(x) = -\frac{1}{2}x^2$

$D_f = \mathbb{R}$

On a $a = -\frac{1}{2} \prec 0$ Donc : Tableau de variations de f

x	$-\infty$	0	$+\infty$
$f(x)$	$+\infty$ ↗	0	↘ $+\infty$

x	0	$\frac{1}{2}$	1	2
$f(x)$	0	$-\frac{1}{8}$	$-\frac{1}{2}$	-2

Représentation graphique :

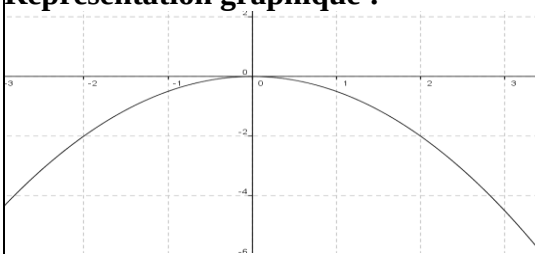

VII) Etude et représentation graphique des fonctions $x \xrightarrow{f} ax^2+bx+c$

1)Formules du changement d'origine du repére

Soit $W\ (\alpha;\beta)$ un point dans le Repére $(0;\vec{i};\vec{j})$ et M un point du plan et

$M\ (x;y)$ les coordonnée de M dans le repére $(0;\vec{i};\vec{j})$

$M\ (X;Y)$ les coordonnée de M dans le repére $(W;\vec{i};\vec{j})$

On a $\overrightarrow{OM}=x\vec{i}+y\vec{j}$ et $\overrightarrow{WM}=X\vec{i}+Y\vec{j}$ et $\overrightarrow{OW}=\alpha\vec{i}+\beta\vec{j}$

$\overrightarrow{WM}=\overrightarrow{WO}+\overrightarrow{OM}=-\overrightarrow{OW}+\overrightarrow{OM}$ Donc :

$X\vec{i}+Y\vec{j}=-\alpha\vec{i}-\beta\vec{j}+x\vec{i}+y\vec{j}=(x-\alpha)\vec{i}+(y-\beta)\vec{j}$

Donc $\begin{cases} X=x-\alpha \\ Y=y-\beta \end{cases}$ sont des formules du changement de l'origine de repére

2)Etude et graphe de $x \xrightarrow{f} ax^2+bx+c$

Propriétés : 1° Soit f une fonction numérique tq :

$f(x)=ax^2+bx+c$

Avec $a\in\mathbb{R}^*$ et $b\in\mathbb{R}$ et $c\in\mathbb{R}$

1° On a f est une fonction polynôme donc $D_f=\mathbb{R}$

2° Pour tout réel $x\in\mathbb{R}$ on peut écrire sous la forme :

$$f(x)=a\left(x+\frac{b}{2a}\right)^2-\frac{\Delta}{4a}$$

Avec $\Delta=b^2-4ac$ et s'appelle la forme canonique de $f(x)$ On pose $\alpha=-\frac{b}{2a}$ et $\beta=-\frac{\Delta}{4a}$

Alors $f(x)=a(x-\alpha)^2+\beta$ c a d

$f(x)-\beta=a(x-\alpha)^2$

3° On a $f(x)=y$ on pose $Y=y-\beta$ et $X=x-\alpha$ et soit $W\ (\alpha;\beta)$ Alors :

Dans le repére $(W;\vec{i};\vec{j})$ la courbe (C_f) de f est d'équation $Y=aX^2$ donc c'est une parabole de sommet W et son axe de symétrie est l'axe des ordonnées

Conséquences : 1° Dans le repére $(0;\vec{i};\vec{j})$ la courbe (C_f) c'est une parabole de sommet $W\ (\alpha;\beta)$ et d'axe de symétrie la droite $x=\alpha$

2° <u>Les variations de f</u>

<u>Si $a\succ 0$</u>

x	$-\infty$	α	$+\infty$
$f(x)$	↘	β	↗

<u>Si $a\prec 0$</u>

x	$-\infty$	α	$+\infty$
$f(x)$	↗	β	↘

Exemples : 1° Soit f une fonction numérique tq :

$f(x)=2x^2-4x-2$

on a f est une fonction polynôme donc $D_f=\mathbb{R}$

On a $a=2$ et $b=-4$ et $c=-2$ $(f(x)=ax^2+bx+c)$

Donc $\alpha=-\frac{b}{2a}=\frac{4}{2\times 2}=1$ et $\beta=-\frac{\Delta}{4a}=-\frac{32}{4\times 2}=-4$

Pour tout réel $x\in\mathbb{R}$ on peut écrire sous la forme :

$$f(x)=a\left(x+\frac{b}{2a}\right)^2-\frac{\Delta}{4a}=2(x-1)^2-4$$

$(f(1)=2-4-2=-4)$

Soit $W\ (1;-4)$ Donc dans le repére $(0;\vec{i};\vec{j})$ la courbe (C_f) c'est une parabole de sommet $W\ (1;-4)$ et d'axe de symétrie la droite $x=1$

<u>Tableau de variations de f</u>

On a $a=2\succ 0$ donc :

x	$-\infty$	1	$+\infty$
$f(x)$	↘	-4	↗

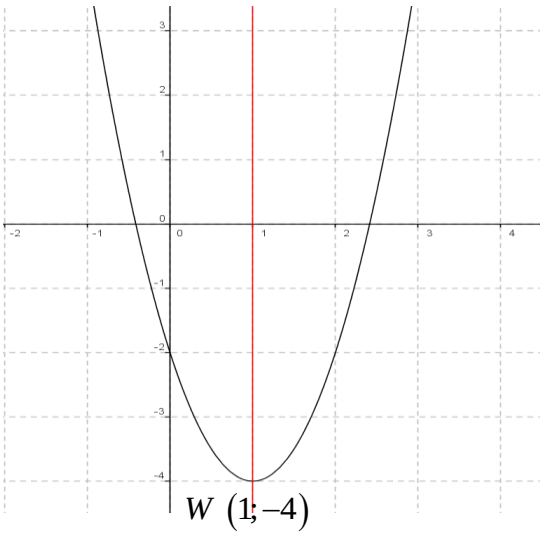

2° Soit g une fonction numérique tq :

$g(x)=-\frac{1}{2}x^2+2x+1$

on a g est une fonction polynôme donc $D_g=\mathbb{R}$

On a $a=-\frac{1}{2}$ et $b=2$ et $c=1$ $(g(x)=ax^2+bx+c)$

Donc $\alpha=-\frac{b}{2a}=\frac{-2}{2\times\left(-\frac{1}{2}\right)}=2$ et $\beta=-\frac{\Delta}{4a}=-\frac{4+2}{-2}=3$

Donc pour tout réel $x\in\mathbb{R}$ on peut écrire sous la forme :

$$g(x)=a\left(x+\frac{b}{2a}\right)^2-\frac{\Delta}{4a}=-\frac{1}{2}(x-2)^2+3$$

$\left(g(2)=-\frac{1}{2}(2-2)+3=3\right)$

Soit $W\ (2;3)$ Donc dans le repére $(0;\vec{i};\vec{j})$ la courbe (C_g) c'est une parabole de sommet $W\ (2;3)$ et d'axe de symétrie la droite $x=2$

Tableau de variations de f

On a $a=-\frac{1}{2}\prec 0$ donc :

x	$-\infty$	2	$+\infty$
$f(x)$	$\nearrow$	3	$\searrow$

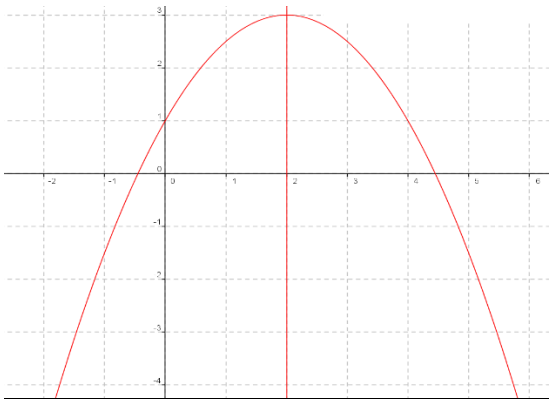

VIII) Etude et représentation graphique des fonctions : $x \xrightarrow{f} \frac{a}{x}\ (a\in\mathbb{R}^*)$

Soit f une fonction tq : $f\ (x)=\frac{a}{x}$

1) La parité de la fonction : On a $f\ (x)\in\mathbb{R}$ ssi $x\neq 0$

Donc $D_f=\mathbb{R}^*$

- Pour tout réel x, si $x\in\mathbb{R}^*$, alors $-x\in\mathbb{R}^*$

- $f\ (-x)=\frac{a}{-x}=-\frac{a}{x}$

$f\ (-x)=-f\ (x)$

Donc f est une fonction impaire,

2) Les variations de la fonction :soient $x_1\in\mathbb{R}^*$ et $x_2\in\mathbb{R}^*$ tq $x_1\neq x_2$ on a : $T\ (x_1;x_2)=\frac{f\ (x_1)-f\ (x_2)}{x_1-x_2}$

$$T\ (x_1;x_2)=\frac{\frac{a}{x_1}-\frac{a}{x_2}}{x_1-x_2}=\frac{ax_2-ax_1}{(x_1-x_2)(x_1x_2)}=\frac{-a(x_1-x_2)}{x_1x_2(x_1-x_2)}=\frac{-a}{x_1x_2}$$

a)sur $I=\mathbb{R}^{*+}$

Soit $x_1\in\mathbb{R}^{*+}$ et $x_2\in\mathbb{R}^{*+}$ $x_1\neq x_2$

Donc $x_1\succ 0$ et $x_2\succ 0$ Donc $x_1x_2\succ 0$

Donc $\frac{1}{x_1x_2}\succ 0$

1iér cas : si $a\succ 0$

Donc : $\frac{-a}{x_1x_2}\prec 0$ donc sur $I=\mathbb{R}^{*+}$ $T\ (x_1;x_2)\prec 0$

Et alors f est strictement décroissante sur $I=\mathbb{R}^{*+}$

et puisque f est une fonction impaire alors f est strictement décroissante sur $J=\mathbb{R}^{*-}$

Tableau de variations de f si $a\succ 0$

x	$-\infty$	0	$+\infty$
$f(x)$	$\searrow$	$\Vert$	$\searrow$

2iér cas : si $a\prec 0$

Donc : $\frac{-a}{x_1x_2}\succ 0$ donc sur $I=\mathbb{R}^{*+}$ $T\ (x_1;x_2)\succ 0$

Et alors f est strictement croissante sur $I=\mathbb{R}^{*+}$

et puisque f est une fonction impaire alors f est strictement croissante sur $J=\mathbb{R}^{*-}$

Tableau de variations de f si $a\prec 0$

x	$-\infty$	0	$+\infty$
$f(x)$	$\nearrow$	$\Vert$	$\nearrow$

3) Représentation graphique

Définition : dans un Repére orthonormé $(0;\vec{i};\vec{j})$ la courbe représentative de la fonction $x \xrightarrow{f} \frac{a}{x}$ avec $a\in\mathbb{R}^*$ s'appelle une hyperbole d'équation $y=\frac{a}{x}$ dont les éléments caractéristiques sont : son centre de symétrie qui est l'origine du repére et Ses deux asymptotes qui sont l'axe des abscisses et l'axe des ordonnées

si $a\succ 0$

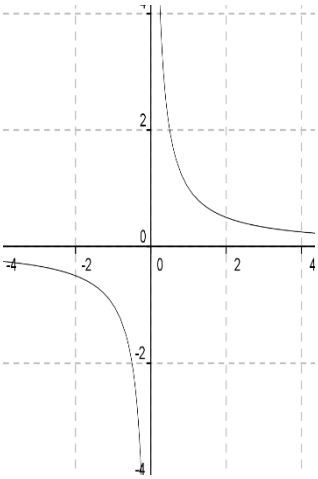

si $a\prec 0$

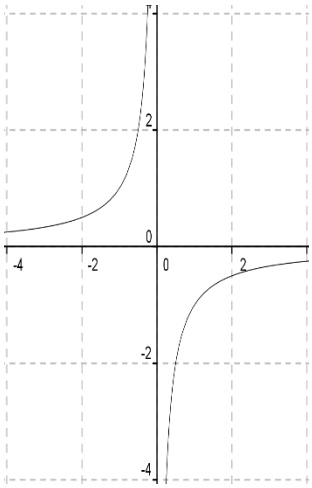

Exemples : Soit f une fonction numérique tq :

$f\ (x)=\frac{2}{x}$

x	0	1	2	3
$f(x)$		2	1	$\frac{2}{3}$

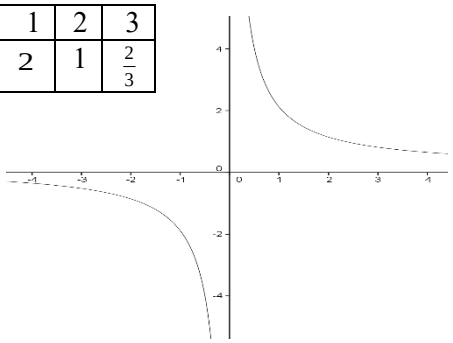

IX) Etude et représentation graphique des fonctions homographique : $x \xrightarrow{f} \dfrac{ax+b}{cx+d}$ $\quad a \neq 0$ et $c \neq 0$

1)Soit f une fonction tq : $f(x) = \dfrac{ax+b}{cx+d}$ on a $f(x) \in \mathbb{R}$ ssi $cx+d \neq 0$ ssi $x \neq -\dfrac{d}{c}$

Donc $D_f = \mathbb{R} - \left\{-\dfrac{d}{c}\right\}$

2)Pour tout $x \in D_f$:

$$f(x) = \frac{ax+b}{cx+d} = \frac{a\left(x+b/a\right)}{c\left(x+d/c\right)} = \frac{a}{c}\frac{\left(x+d/c-d/c+b/a\right)}{x+d/c}$$

$$f(x) = \frac{a}{c}\left(1+\frac{\frac{bc-ad}{ac}}{x+d/c}\right) = \frac{a}{c}+\frac{\frac{bc-ad}{c^2}}{x+d/c}$$

On pose $\alpha = -\dfrac{d}{c}$ et $\beta = \dfrac{a}{c}$ et $\gamma = \dfrac{-\det f}{c^2}$ avec

$$\det f = \begin{vmatrix} a & b \\ c & d \end{vmatrix} = ad - bc$$

1)Résumé et propriété : Soit f une fonction homographique tq : $f(x) = \dfrac{ax+b}{cx+d}$

$a \neq 0$ et $c \neq 0$ et $ad - bc \neq 0$

• Pour $x \in \mathbb{R} - \left\{-\dfrac{d}{c}\right\}$ on a $f(x) = \beta + \dfrac{\gamma}{x-\alpha}$ dite forme réduite de $f(x)$

Avec $\alpha = -\dfrac{d}{c}$ et $\beta = \dfrac{a}{c}$ et $\gamma = \dfrac{-\det f}{c^2}$ avec

$$\det f = \begin{vmatrix} a & b \\ c & d \end{vmatrix} = ad - bc$$

• Soit $W(\alpha;\beta)$ Donc dans le repére $(W;\vec{i};\vec{j})$ l'équation de (C_f) est $Y = \dfrac{\gamma}{X}$ avec $Y = y - \beta$ et $X = x - \alpha$ donc (C_f) est une hyperbole de centre W et d'asymptotes l'axe des abscisse et l'axe des ordonnées

• dans le repére $(O;\vec{i};\vec{j})$ (C_f) est l'hyperbole de centre W et d'asymptotes les droites d'équations respectives $x = \alpha$ et $y = \beta$

Conséquences : 1iér cas : si $\det f = \begin{vmatrix} a & b \\ c & d \end{vmatrix} = ad - bc \succ 0$

Tableau de variations de f :

x	$-\infty$	$-\frac{d}{c}$	$+\infty$
$f(x)$	↗	‖	↗

2iér cas : si $\det f = \begin{vmatrix} a & b \\ c & d \end{vmatrix} = ad - bc \prec 0$

Tableau de variations de f :

x	$-\infty$	$-\frac{d}{c}$	$+\infty$
$f(x)$	↘	‖	↘

Exemples 1: Soit f une fonction numérique tq :

$$f(x) = \frac{-2x+1}{2x-4}$$

on a $f(x) \in \mathbb{R}$ ssi $2x - 4 \neq 0$ ssi $x \neq 2$

Donc $D_f = \mathbb{R} - \{2\}$

Si $x \in \mathbb{R} - \{2\}$ on a

$$\begin{array}{l|l} -2x+1 & 2x-4 \\ \underline{-2x+4} & \overline{-1} \\ -3 & \end{array}$$

$$f(x) = \frac{-(2x-4)-3}{2x-4} = \frac{-(2x-4)}{2x-4} + \frac{-3}{2x-4} = -1 + \frac{-3/2}{x-2}$$

$$f(x) + 1 = \frac{-3/2}{x-2}$$

On pose $\alpha = 2$ et $\beta = -1$ et soit $W(2;-1)$

• Donc dans le repére $(W;\vec{i};\vec{j})$ l'équation de (C_f) est $Y = \dfrac{-3/2}{X}$ avec $Y = y+1$ et $X = x-2$ donc (C_f) est une hyperbole de centre W et d'asymptotes les droites d'équations respectives $x = 2$ et $y = -1$

• Tableau de variations $X \longrightarrow \dfrac{-3/2}{X}$ $\left(-3/2 \prec 0\right)$

x	$-\infty$	0	$+\infty$
$f(x)$	↗	‖	↗

-2	1-	0	1	2	3	4
1	$\frac{1}{2}$	-1		5	$\frac{7}{2}$	3

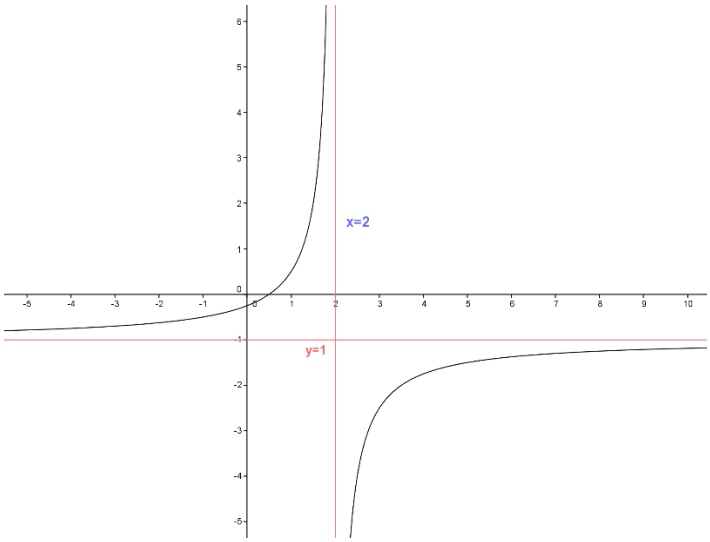

Exemples 2: Soit f une fonction numérique tq :

$$f(x)=\frac{2x+1}{x-1}$$

on a $f(x)\in\mathbb{R}$ ssi $x-1\neq 0$ ssi $x\neq 1$

Donc $D_f=\mathbb{R}-\{1\}$

Si $x\in\mathbb{R}-\{1\}$ on a :

$$\begin{array}{l|l} 2x+1 & x-1 \\ \hline -2x+2 & 2 \\ \hline 3 & \end{array}$$

$$f(x)=\frac{2x+1}{x-1}=\frac{2(x-1)+3}{x-1}=\frac{2(x-1)}{x-1}+\frac{3}{x-1}=2+\frac{3}{x-1}$$

$f(x)-2=\dfrac{3}{x-1}$ ssi $y-2=\dfrac{3}{x-1}$

On pose $\begin{cases} x-1=X \\ y-2=Y \end{cases}$ donc $\begin{cases} x=X+1 \\ y=Y+2 \end{cases}$

$y=\dfrac{2x+1}{x-1}$ ssi $Y=\dfrac{3}{X}$

- Tableau de variations de $X\longrightarrow\dfrac{3}{X}$ $(3\succ 0)$

x	$-\infty$	0	$+\infty$
$f(x)$	↘	‖	↘

On a $\begin{cases} X=0 \\ Y=0 \end{cases}$ donc $\begin{cases} x=1 \\ y=2 \end{cases}$

- Donc le tableau de variations de $x\longrightarrow\dfrac{2x+1}{x-1}$

x	$-\infty$	1	$+\infty$
$f(x)$	↘	‖	↘

- Représentation graphique

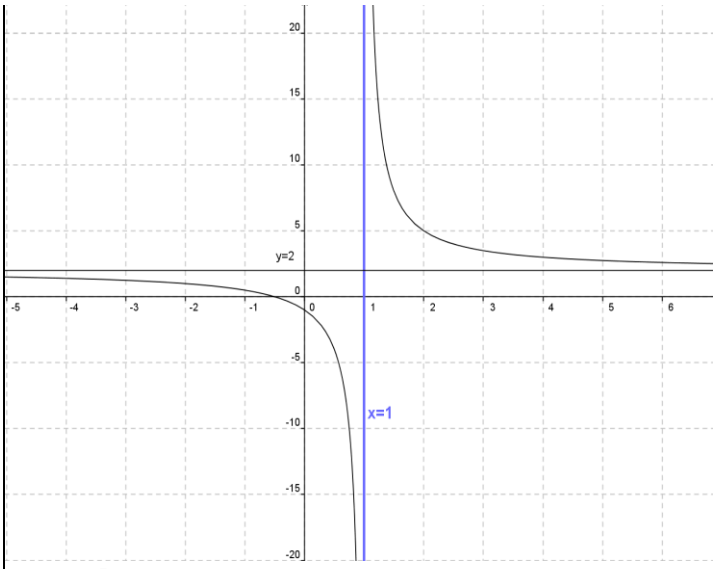

Exemples 3: Soit g une fonction numérique tq :

$$g(x)=\frac{-x}{x-2}$$

on a $g(x)\in\mathbb{R}$ ssi $x-2\neq 0$ ssi $x\neq 2$

Donc $D_g=\mathbb{R}-\{2\}$

Si $x\in\mathbb{R}-\{2\}$ on a

$$\begin{array}{l|l} -x & x-2 \\ \hline x-2 & -1 \\ \hline -2 & \end{array}$$

$$g(x)=\frac{-x}{x-2}=\frac{-1(x-2)-2}{x-2}=\frac{-1(x-2)}{x-2}+\frac{-2}{x-2}=-1+\frac{-2}{x-2}$$

$g(x)+1=\dfrac{-2}{x-2}$ ssi $y+1=\dfrac{-2}{x-2}$

On pose $\begin{cases} x-2=X \\ y+1=Y \end{cases}$ donc $\begin{cases} x=X+2 \\ y=Y-1 \end{cases}$

$y=\dfrac{-x}{x-2}$ ssi $Y=\dfrac{-2}{X}$

- Tableau de variations de $X\longrightarrow\dfrac{-2}{X}$ $(-2\prec 0)$

x	$-\infty$	0	$+\infty$
$f(x)$	↗	‖	↗

On a $\begin{cases} X=0 \\ Y=0 \end{cases}$ donc $\begin{cases} x=2 \\ y=-1 \end{cases}$

- Donc le tableau de variations de $x\longrightarrow\dfrac{-x}{x-2}$

x	$-\infty$	2	$+\infty$
$f(x)$	↗	‖	↗

- Représentation graphique

-1	0	1	2	3	4	5
-1/ 3	0	1		-3	-2	-5/ 3

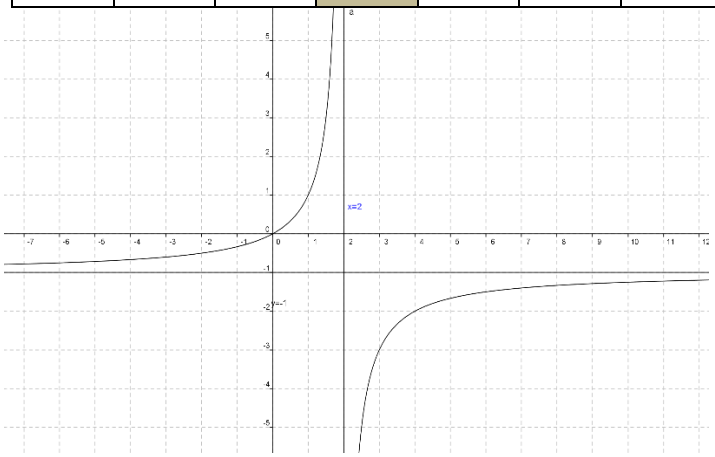

X) Applications : Position relative de courbes, interprétation graphique d'équations et d'inéquations

Le but de ce chapitre est de pouvoir déterminer par le calcul, entre 2 courbes, quelle courbe se situe au- dessus de l'autre et sur quel(s) intervalle (s).

1) Position relative de deux courbes et intersection

Soient (C_f) la courbe représentative de f et (C_g) la courbe représentative de g.

On peut établir les relations suivantes :

$M(x;y) \in (C_f)$ ssi $y = f(x)$

$M(x;y) \in (C_g)$ ssi $y = g(x)$

Aux points d'intersection de (C_f) et de (C_g), on a

$M \in (C_f)$ et $M \in (C_g)$ donc : soit $f(x) = g(x)$

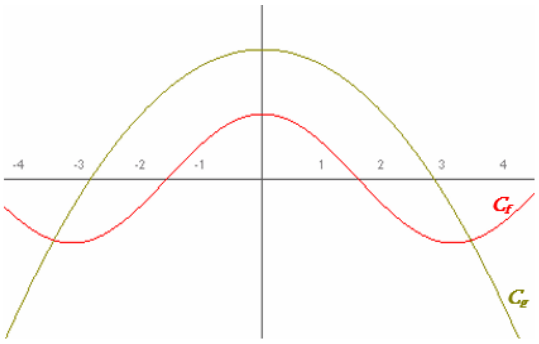

A retenir :

- les solutions de l'équation $f(x) = g(x)$ sont les abscisses des points D'intersection de (C_f) et de (C_g)
- les solutions de l'inéquation $f(x) \geq g(x)$ sont les abscisses des points de (C_f) situées au-dessus de (C_g) .
- les solutions de l'inéquation $f(x) \leq g(x)$ sont les abscisses des points de (C_f) situées au- dessous de (C_g)

Un cas particulier : équation $f(x) = m$ et inéquation $f(x) \geq m$

•

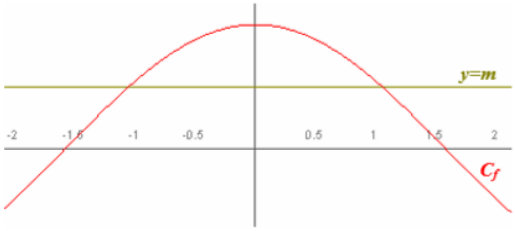

- Les solutions de l'équation $f(x) = m$ sont les abscisses des points d'intersection de (C_f) avec la droite d'équation $y = m$
- Les solutions de l'inéquation $f(x) \geq m$ sont les abscisses des points de (C_f) situés au-dessus de la droite d'équation $y = m$.

2) Quelques exercices d'application

Exercice1 : Soit la courbe (C_f) représentative de f telle que $f(x) = x^3 - 4x^2 + 3$ et la droite (D) d'équation $y = -x - 3$

1- Résoudre graphiquement l'équation $f(x) = 3$

2- puis l'inéquation $f(x) \prec 3$.

3- Résoudre graphiquement l'équation $f(x) = 0$ et l'inéquation $f(x) \geq 0$

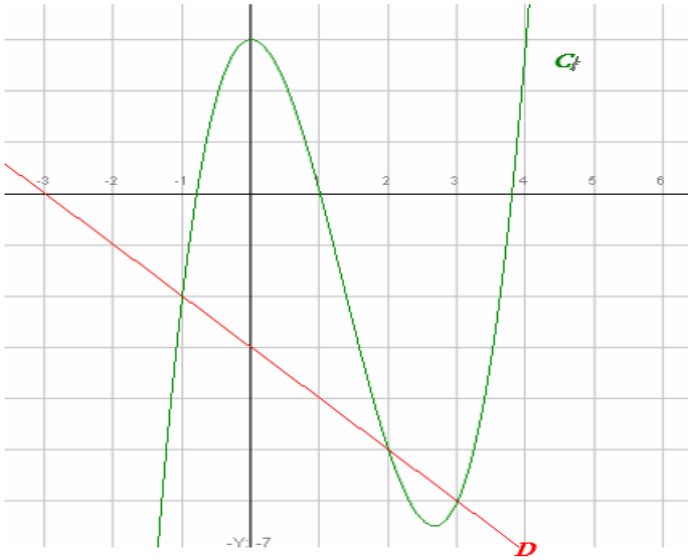

4- Résoudre graphiquement l'équation $f(x) = -x - 3$ puis l'inéquation $f(x) \leq -x - 3$

Réponses : 1) $f(x) = 3$ La solution est l'ensemble des antécédents de 3 : $S = \{0;4\}$

2- $f(x)=0$ La solution est l'ensemble des antécédents de 0 : $S=\{a;1;b\}$ Avec $-1\prec a\prec -0.5$ et $3.5\prec b\prec 4$

$f(x)\geq 0 \quad S=[a;1]\cup[b;+\infty[$

3- $f(x)=-x-3$ La solution l'ensemble des abscisses des points d'intersection de (C_f) et de D : $y=-x-3$ donc $S=\{-1;2;3\}$

$f(x)\leq -x-3 \quad S=]-\infty;-1]\cup[2;3]$

Exercice2 : Soient f et g les deux fonctions définies sur R par : $f(x)=x^2-3x-4$ et $g(x)=3x+12$

1) Tracer Les courbes représentatives (C_f) et (C_g)
2) Résoudre graphiquement et algébriquement l'équation $f(x)=g(x)$
3) Résoudre graphiquement et algébriquement l'inéquation $f(x)\geq g(x)$
4) Trouver les points d'intersection de la courbe (C_f) avec les axes du repére

Réponses : 1) Les courbes représentatives (C_f) (en rouge) et (C_g) (en bleu) sont données dans le repére ci-dessous

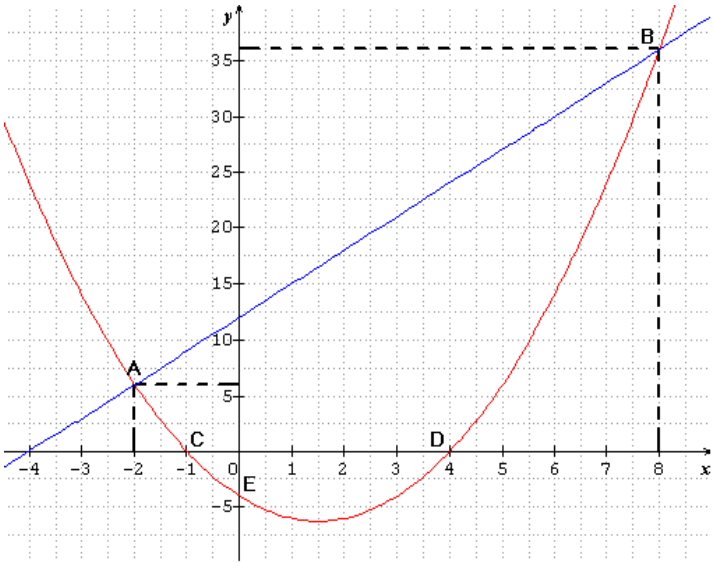

2) a) résolution graphique de l'équation $f(x)=g(x)$

Il suffit de chercher les abscisses des points d'intersection des courbes (C_f) et (C_g)

On a donc $x=-2$ et $x=8$ donc $S=\{-2;8\}$

b) résolution algébrique de l'équation $f(x)=g(x)$

$f(x)=g(x)$ ssi $x^2-3x-4=3x+12$ ssi

$x^2-6x-16=0$

$a=1$ et $b=-6$ et $c=-16$

$\Delta=b^2-4ac=(-6)^2-4\times1\times(-16)=36+64=100=(10)^2>0$

$x_1=\dfrac{-b+\sqrt{\Delta}}{2a}$ et $x_2=\dfrac{-b-\sqrt{\Delta}}{2a}$

$x_1=\dfrac{-(-6)+\sqrt{100}}{2\times1}=\dfrac{6+10}{2}=\dfrac{16}{2}=8$ et

$x_2=\dfrac{-(-6)-\sqrt{100}}{2\times1}=\dfrac{6-10}{2}=\dfrac{-4}{2}=-2$

donc $S=\{-2;8\}$

3) a) résolution graphique de l'inéquation $f(x)\succ g(x)$

La courbe (C_f) est au-dessus de (C_g) si

$x\in]-\infty;-2[\cup]8;+\infty[$

Donc $S=]-\infty;-2[\cup]8;+\infty[$

b) résolution algébrique de l'inéquation $f(x)\succ g(x)$

$f(x)\succ g(x)$ ssi $x^2-3x-4\succ 3x+12$ ssi

$x^2-6x-16\succ 0$

Les racines sont : $x_1=8$ et $x_2=-2$

x	$-\infty$		-2		8		$+\infty$
$x^2-6x-16$		$+$	0	$-$	0	$+$	

Donc $S=]-\infty;-2[\cup]8;+\infty[$

4)a) Intersection de la courbe (C_f) avec l'axe des abscisses

Les points d'intersection C et D de la courbe (C_f) avec l'axe des abscisses ont leurs ordonnées nulles, et leurs abscisses sont les solutions de l''équation $f(x)=0$

$f(x)=0$ ssi $x^2-3x-4=0$

$a=1$ et $b=-3$ et $c=-4$

$\Delta=b^2-4ac=(-3)^2-4\times1\times(-4)=9+16=25=(5)^2>0$

$x_1=\dfrac{-b+\sqrt{\Delta}}{2a}$ et $x_2=\dfrac{-b-\sqrt{\Delta}}{2a}$

$x_1=\dfrac{-(-3)+\sqrt{25}}{2\times1}=\dfrac{3+5}{2}=\dfrac{8}{2}=4$ et

$x_2=\dfrac{-(-3)-\sqrt{25}}{2\times1}=\dfrac{3-5}{2}=\dfrac{-2}{2}=-1$

donc les points d'intersection de la courbe (C_f) avec l'axe des abscisses sont :

$C(-1;0)$ et $D(4;0)$

b) Intersection de la courbe (C_f) avec l'axe des ordonnées

le point d'intersection de la courbe (C_f) avec l'axe des ordonnées a une abscisse nulle

et on a $f(0)=0^2-3\times0-4=-4$

donc le point d'intersection de la courbe (C_f) avec l'axe des ordonnées est : $E(-4;0)$

« C'est en forgeant que l'on devient forgeron » Dit un proverbe.
C'est en s'entraînant régulièrement aux calculs et exercices
Que l'on devient un mathématicien